# Olimpiada județeană de geografie- proba practică -04 martie 2017
# clasa a IX-a
# Földrajz tantárgyverseny- megyei szakasz- gyakorlati próba – 2017. március 04.
# IX. osztály

- În următoarele 9 slide-uri veți observa imagini/fotografii despre fenomene, procese sau elemente geografice. Identificați, după numărul dat fiecărei imagini/fotografie, tipul de fenomen, proces sau element geografic observat și notați răspunsul pe foaia de lucru. (după numărul imaginii-notați răspunsul vostru).

Timp de lucru 10 minute(1min/slide)

- A következő 9 elektronikus diapozitív fényképein földrajzi jelenségeket, folyamatokat vagy földrajzi elemeket fogtok megfigyelni. Határozzátok meg a fényképeken ábrázolt földrajzi jelenséget, folyamatot vagy földrajzi elemet, és a fénykép száma alapján írjátok le a vizsgalapra a helyes választ!
- Munkaidő: 10 perc( 1perc/diapozitív)

**Identificaţi fenomenele geografice din imaginile marcate cu 1a,1b şi obiectul ceresc de la 1c!**

**Határozzátok meg az 1a, és 1b pontokkal jelölt képeken látható földrajzi jelenségeket, valamint az 1c ponttal jelölt égitest nevét!**









**Identificați numele obiectelor cerești marcate cu literele de la a...până la j!**

**Határozzátok meg az a–tól ...j-ig terjedő betűkkel jelölt égitestek neveit!**

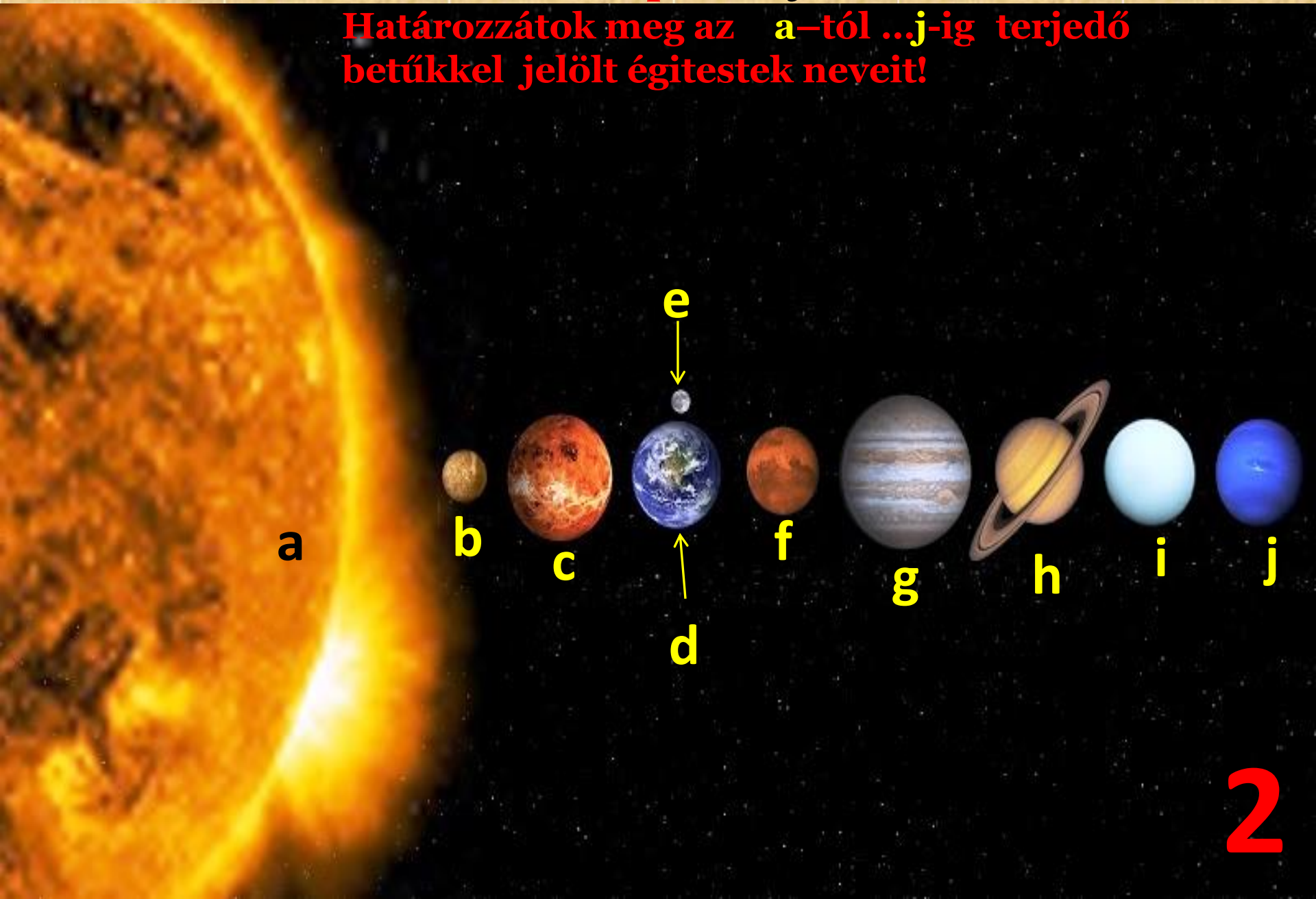

**Identificați numele fenomenului geografic din cele 2 imagini alăturate!**

**Nevezzétek meg a mellékelt 2 képen ábrázolt földrajzi jelenség nevét!**





3

**Identificați elementele hărții topografice indicate prin săgeți de la puntele marcate cu 4a și 4b!**
**Nevezzétek meg az alábbi topográfiai térkép nyilakkal jelölt elemeit a 4a és 4b pontokban!**

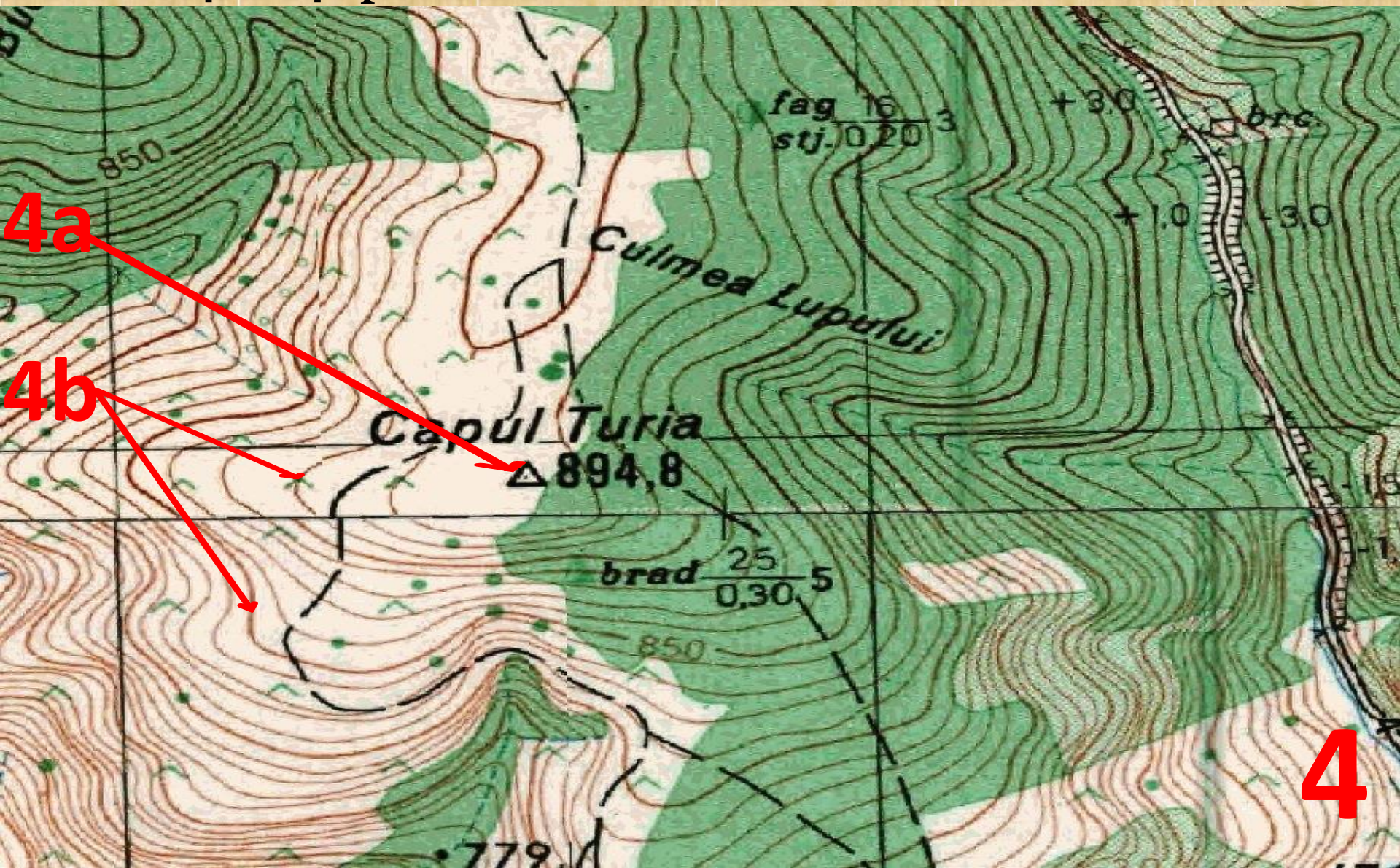

**Identificați forma de relief din imagine, respectiv agentul moderator al reliefului care a creat forma de relief din imagine!**
**Nevezzétek meg a képen látható domborzati formát, valamint azt a felszínformáló elemet, amely ezt kialakította!**



5

**Identificaţi forma de relief indicată de săgeți pe imaginea dată!**
**Határozzátok meg a képen látható nyilakkal jelölt domborzati formát!**



**Denumiți tipul de relief din imagine și numele formelor de relief indicate prin săgeți marcate cu punctele 7a și 7b**

**Nevezzétek meg a képen látható domborzati típust, valamint az 7a és 7 b pontokkal és nyilakkal jelölt domborzati formák neveit!**

**7**



**Identificaţi procesul gravitaţional din imaginea dată!**

**Nevezzétek meg a képen látható gravitációs tömegmozgás típusát!**



8

**Identificaţi părţile componente pentru valea râului prezentat pe imaginea alăturată marcate cu 9.a, 9.b, 9.c, 9.d.!**
**Nevezzétek meg a a 9.a, 9.b, 9.c, 9.d. pontokban bemutatott folyó völgyének elemeit!**




9